جویا معلم

ریاضی نوبت اول

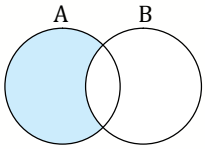
دورهٔ اول متوسطه ـ پایهٔ نهم

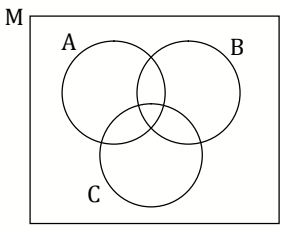
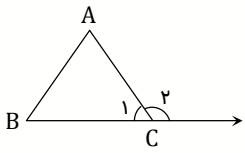
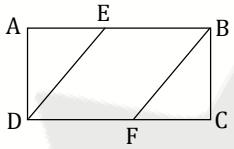
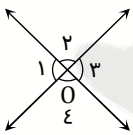
نمونه آزمون دی ماه (نوبت اول)

فصل اول تا چهارم | مدت آزمون: ۹۰ دقیقه

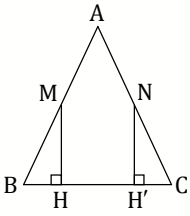
آزمون ۲

نمره

A_۱	$\mathbb{N}\cup\mathbb{W}=\mathbb{N}$ (فصل ۱) (گیلان ـ نوبت عصر، خرداد ۹۸) ..... ☐ درست ☐ نادرست	۰/۲۵
A_۲	عدد $۰/\overline{۳}$ یک عدد اعشاری متناوب است. (فصل ۲) (البرز ـ نوبت عصر، خرداد ۹۸) ..... ☐ درست ☐ نادرست	۰/۲۵
A_۳	حاصل عبارت $۳^{-۲}$ برابر با -۹ می‌باشد. (فصل ۴) (کهگیلویه و بویراحمد ـ خرداد ۹۸) ..... ☐ درست ☐ نادرست	۰/۲۵
A_۴	به استدلالی که موضوع موردنظر را به‌درستی نتیجه دهد، اثبات می‌گوییم. (فصل ۳) (اردبیل ـ خرداد ۹۸) ..... ☐ درست ☐ نادرست	۰/۲۵
B_۱	مجموعهٔ $A=\{۰ \text{ و } \varnothing\}$، دارای ..... عضو است. (فصل ۱) (خراسان جنوبی ـ خرداد ۹۸)	۰/۲۵
B_۲	اگر $y<۰$ و $x>۰$ باشند، حاصل $\sqrt{(xy)^۲}$ برابر با ..... است. (فصل ۴) (گیلان ـ نوبت صبح، خرداد ۹۸)	۰/۲۵
B_۳	دو چندضلعی ..... با تعداد ضلع‌های برابر همواره متشابه هستند. (فصل ۳) (گیلان ـ نوبت صبح، خرداد ۹۸)	۰/۲۵
B_۴	در پرتاب یک تاس، احتمال اینکه عدد رو شده اول باشد، ..... است. (فصل ۱) (خراسان رضوی ـ خرداد ۹۸)	۰/۲۵
C_۱	قسمت رنگی با کدام گزینهٔ زیر نشان داده شده است؟ (فصل ۱) (کرمانشاه ـ خرداد ۹۸)  الف) $A\cup B$ ☐ ب) $A\cap B$ ☐ ج) $A-B$ ☐ د) $B-A$ ☐	۰/۲۵
C_۲	اگر $x>۲$ باشد، حاصل عبارت $\lvert x-۱\rvert+\lvert x-۱\rvert$ کدام گزینه است؟ (فصل ۲) (همدان ـ خرداد ۹۸) الف) $۲x-۲$ ☐ ب) -۲ ☐ ج) $۲x$ ☐ د) صفر ☐	۰/۲۵
C_۳	به خواستهٔ مسئله ..... می‌گویند. (فصل ۳) (اصفهان ـ خرداد ۹۸) الف) استدلال ☐ ب) اثبات ☐ ج) فرض ☐ د) حکم ☐	۰/۲۵
C_۴	حاصل عبارت مقابل به ساده‌ترین صورت برابر با کدام گزینه است؟ (فصل ۴) (آذربایجان شرقی ـ خرداد ۹۸) $(-\frac{۲}{۵})^{-۲}=$ الف) $\frac{۲۵}{۴}$ ☐ ب) $-\frac{۲۵}{۴}$ ☐ ج) $-\frac{۴}{۲۵}$ ☐ د) $\frac{۴}{۲۵}$ ☐	۰/۲۵
۱	یک مجموعه دارای ۱۶ زیرمجموعه است. تعداد عضوهای این مجموعه چندتا است؟ (فصل ۱) (همدان ـ خرداد ۹۸)	۱
۲	مجموعهٔ B را به زبان ریاضی بنویسید. (فصل ۱) (کرمان ـ خرداد ۹۸) $B=\{-۳ \text{ و } -۴ \text{ و } -۵ \text{ و } \cdots\}$	۱

۳	مجموعهٔ $(A-C)\cup(B-C)$ را در شکل مقابل رنگ بزنید. (فصل ۱) (خوزستان ـ خرداد ۹۸) 	۱
۴	در جعبه‌ای ٤ مهرهٔ قرمز، ۳ مهرهٔ آبی و ۷ مهرهٔ سبز وجود دارد. اگر یک مهره را به‌تصادف از این جعبه خارج کنیم، چقدر احتمال دارد که: الف) این مهره آبی باشد؟ ب) این مهره قرمز یا سبز باشد؟ (فصل ۱) (خوزستان ـ خرداد ۹۸)	۱
۵	معلم ریاضی از علی خواست به‌جای a و b عددهای دو رقمی قرار دهد تا نمایش اعشاری کسر $\frac{a}{b}$ مختوم باشد. علی به‌جای b عدد ۲٤ را قرار داد. او به‌جای a چه عددی می‌تواند قرار دهد تا پاسخ درست داده باشد؟ (فصل ۲) (مازندران ـ خرداد ۹۸)	۱
۶	چرا مجموعهٔ عددهای گویای بین ۱ و ۲ را نمی‌توان روی محور نشان داد؟ (فصل ۲) (خراسان شمالی ـ خرداد ۹۸)	۰/۵
۷	مجموعهٔ $f=\{x\in\mathbb{R}\mid x\geq 1\}$ را روی محور نشان دهید. (فصل ۲) (شهرستان‌های استان تهران ـ نوبت عصر، خرداد ۹۸)	۱
۸	حاصل عبارت مقابل را به‌ازای $b=5$ و $a=-\frac{2}{3}$ به‌دست آورید. (فصل ۲) (یزد ـ خرداد ۹۸) $\lvert 3a-2b\rvert=$	۱
۹	الف) در مسئلهٔ زیر فرض و حکم را بنویسید. (فصل ۳) (اردبیل ـ خرداد ۹۸) «در مثلث، اندازهٔ هر زاویهٔ خارجی با مجموع دو زاویهٔ داخلی غیرمجاور آن برابر است.»  ب) در مستطیل مقابل اگر $\overline{AE}=\overline{FC}$ باشد، ثابت کنید $\overline{DE}=\overline{BF}$ 	۲
۱۰	به کمک شکل مقابل نشان دهید زاویه‌های متقابل به رأس باهم برابرند. (فرض و حکم را مشخص کنید) (فصل ۳) (چهارمحال و بختیاری ـ خرداد ۹۸) 	۱

۱۱ مثلث ABC متساوی‌الساقین است و نقطه‌های M و N وسط دو ساق هستند. با کامل کردن جاهای خالی ثابت کنید: $\overline{BH} = \overline{CH'}$ (فصل ۳) (اصفهان ـ خرداد ۹۸) — ۱



$\hat{H} = \hat{H'} = ۹۰^\circ$
..... = ...
..... = ...
} (.....) به حالت ⟶ $\overset{\Delta}{MBH} \cong \overset{\Delta}{NCH'} \Rightarrow$ ..... = ...

۱۲ در یک نقشه مقیاس ۱ به ۵۰۰ می‌باشد. فاصلهٔ دو نقطه روی نقشه ۱/۵ سانتی‌متر است. فاصلهٔ این دو نقطه در اندازهٔ واقعی چقدر است؟ (فصل ۳) (البرز ـ نوبت عصر، خرداد ۹۸) — ۰/۷۵

۱۳ حاصل عبارت مقابل را به‌صورت توان‌دار بنویسید. (فصل ۴) (کرمانشاه ـ خرداد ۹۸) — ۱

$$\frac{۳^۷}{۱۲ - ۳^۲} =$$

۱۴ الف) نمایش اعشاری عدد مقابل را بنویسید. (فصل ۴) (چهارمحال و بختیاری ـ خرداد ۹۸) — ۱

$$۶/۷ \times ۱۰^{-۳} =$$

ب) عدد مقابل را با نمادعلمی نمایش دهید. (فصل ۴) (چهارمحال و بختیاری ـ خرداد ۹۸)

$$۰/۱۳۹۸ =$$

۱۵ حاصل عبارت مقابل را به ساده‌ترین صورت ممکن بنویسید. (فصل ۴) (گیلان ـ نوبت عصر، خرداد ۹۸) — ۱

$$\frac{\sqrt{۷۵}}{\sqrt[۳]{۲} \times \sqrt[۳]{۴}} =$$

۱۶ الف) حاصل عبارت مقابل را به‌دست آورید. (فصل ۴) (کهگیلویه و بویراحمد ـ خرداد ۹۸) — ۱/۷۵

$$۲\sqrt{۵۰} + \sqrt{۳۲} - ۲\sqrt{۷۲} =$$

ب) مخرج کسر مقابل را گویا کنید. (فصل ۴) (کهگیلویه و بویراحمد ـ خرداد ۹۸)

$$\frac{۶}{\sqrt[۳]{۲}}$$

۲۰